# แนวข้อสอบเข้า ป.1
# โรงเรียนสาธิต

BRIGHTEN UP Kids

สำหรับเตรียมสอบเข้า ป.1 สาธิตเกษตร สาธิตจุฬา
และ โรงเรียนชั้นนำทั่วประเทศ

## **<u>คำชี้แจง</u>** ในการทำข้อสอบ

- ข้อสอบแต่ละชุดมี 30 ข้อ ใช้เวลาทำข้อสอบ 60 นาที
- ให้ผู้ปกครองอ่านโจทย์และคำตอบอย่างชัดเจนให้เด็กฟัง
- ให้เด็กกากบาทคำตอบหรือเขียนตัวเลขลงในกระดาษคำตอบ
- ถ้าต้องการแก้ไขคำตอบให้เขียนเครื่องหมายทับข้อที่แก้ไข แล้วเขียนคำตอบใหม่ที่ต้องการ (ดูตามตัวอย่าง)

ฝึกให้เด็กมีสมาธิในการฟังให้มากๆ เพื่อจะได้เข้าใจคำสั่งและปฏิบัติตามได้อย่างถูกต้อง ในการสอบจริงแต่ละที่จะมีข้อปฏิบัติที่แตกต่างกันไป

**<u>ตัวอย่าง</u>** แนวกระดาษคำตอบสาธิตเกษตร
ใช้ปากกาเขียนกากบาท ( ╳ ) ในช่องคำตอบที่เลือก

| ข้อ | คำตอบ | | |
|---|---|---|---|
| 1 | ก | ข | ╳ |
| 2 | ╳ | ข | ค |
| 3 | ก | ~~╳~~ | ╳ |

**<u>ตัวอย่าง</u>** แนวกระดาษคำตอบสาธิตจุฬา
ใช้ปากกาเขียนคำตอบที่เลือกในช่องคำตอบ

| ข้อ | คำตอบ |
|---|---|
| 1 | 3 |
| 2 | 1 |
| 3 | 3 ~~2~~ |

# แนวกระดาษคำตอบสาธิตเกษตร

ชื่อ นามสกุล .....

| ข้อ | คำตอบ | | |
|---|---|---|---|
| 1 | ก | ข | ค |
| 2 | ก | ข | ค |
| 3 | ก | ข | ค |
| 4 | ก | ข | ค |
| 5 | ก | ข | ค |
| 6 | ก | ข | ค |
| 7 | ก | ข | ค |
| 8 | ก | ข | ค |
| 9 | ก | ข | ค |
| 10 | ก | ข | ค |
| 11 | ก | ข | ค |
| 12 | ก | ข | ค |
| 13 | ก | ข | ค |
| 14 | ก | ข | ค |
| 15 | ก | ข | ค |

| ข้อ | คำตอบ | | |
|---|---|---|---|
| 16 | ก | ข | ค |
| 17 | ก | ข | ค |
| 18 | ก | ข | ค |
| 19 | ก | ข | ค |
| 20 | ก | ข | ค |
| 21 | ก | ข | ค |
| 22 | ก | ข | ค |
| 23 | ก | ข | ค |
| 24 | ก | ข | ค |
| 25 | ก | ข | ค |
| 26 | ก | ข | ค |
| 27 | ก | ข | ค |
| 28 | ก | ข | ค |
| 29 | ก | ข | ค |
| 30 | ก | ข | ค |

# แนวกระดาษคำตอบสาธิตจุฬา

ชื่อ นามสกุล .....

| ข้อ | คำตอบ |
|---|---|
| 1 | |
| 2 | |
| 3 | |
| 4 | |
| 5 | |
| 6 | |
| 7 | |
| 8 | |
| 9 | |
| 10 | |
| 11 | |
| 12 | |
| 13 | |
| 14 | |
| 15 | |

| ข้อ | คำตอบ |
|---|---|
| 16 | |
| 17 | |
| 18 | |
| 19 | |
| 20 | |
| 21 | |
| 22 | |
| 23 | |
| 24 | |
| 25 | |
| 26 | |
| 27 | |
| 28 | |
| 29 | |
| 30 | |

# ชุดตัวอย่าง (ตัวอย่างวิชาภาษาไทย)

ฟังเรื่องราวต่อไปนี้ แล้วตอบคำถามข้อ 1-5 โดยเลือกคำตอบที่ถูกต้องที่สุดเพียงข้อเดียว

ในสวนหลังบ้านคุณปู่มีบ่อน้ำที่มีปลาหางนกยูงว่ายไปมา ข้างๆ บ่อ คุณปู่ได้ปลูกพืชผักสวนครัวนานาชนิดไว้กินเอง เช่น เป็นผักกาด กะหล่ำปลี และมะเขือเทศ คุณปู่ชอบมาดูแลสวนทุกวันเช้าและเย็น และมักจะเห็นกระรอกตัวน้อยวิ่งเล่นไปมาบนต้นไม้ใหญ่ใกล้บ่อน้ำ บางครั้งมันก็ลงมาแทะผักที่ปลูกไว้บ้าง คุณปู่ก็ได้แต่มองด้วยความเอ็นดู ไม่เคยไล่เลย

1. สิ่งใดที่คุณปู่ปลูกไว้ในสวนบ้าง

| ก<br>(1) | ข<br>(2) | ค<br>(3) |
|---|---|---|
| ผักกาด กะหล่ำปลี และมะม่วง | ผักกาด กะหล่ำปลี และมะเขือเทศ | ข้าวโพด มะเขือ และพริก |

2. คุณปู่มาดูแลสวนช่วงเวลาใด

| ก<br>(1) | ข<br>(2) | ค<br>(3) |
|---|---|---|
| ทุกวันตอนเช้า | ทุกวันตอนเย็น | ทุกวันเช้าและเย็น |

3. สัตว์ชนิดใดที่เห็นในสวนของคุณปู่

| ก<br>(1) | ข<br>(2) | ค<br>(3) |
|---|---|---|
| นกพิราบและปลาทอง | ปลาหางนกยูง และกระรอก | แมลงปอและกบ |

4. คุณปู่มีความรู้สึกอย่างไรเมื่อเห็นกระรอกลงมาแทะผัก

| ก<br>(1) | ข<br>(2) | ค<br>(3) |
|---|---|---|
| รู้สึกรำคาญ<br>อยากจะไล่ออกไป | รู้สึกเอ็นดู<br>ไม่ได้ไล่ออกไป | รู้สึกโกรธ<br>และเสียดายผัก |

5. หากคุณปู่ต้องการเพิ่มจำนวนปลาในบ่อ คุณปู่ควรทำอย่างไร

| ก<br>(1) | ข<br>(2) | ค<br>(3) |
|---|---|---|
| ตักปลาในบ่อ<br>ไปให้เพื่อนบ้าน | ซื้อปลาหางนกยูง<br>มาเพิ่ม | เอาอาหารเม็ด<br>ให้ปลาเยอะๆ |

6. ข้อใดเขียนถูกต้อง

| ก<br>(1) | ข<br>(2) | ค<br>(3) |
|---|---|---|
| เก้าอี่ | เก้าอี้ | เก่าอี้ |

7. ข้อใดมีพยัญชนะต้นเหมือนกับภาพนี้ 

| ก<br>(1) | ข<br>(2) | ค<br>(3) |
|---|---|---|
| | | |

8. สัตว์ชนิดใดที่นำเชื้อโรคมาสู่อาหาร

| ก<br>(1) | ข<br>(2) | ค<br>(3) |
|---|---|---|
|  |  | |

9. อาหารชนิดใดที่เราสามารถรับประทานแล้วย่อยง่ายกว่าชนิดอื่นๆ

| ก<br>(1) | ข<br>(2) | ค<br>(3) |
|---|---|---|
| เนื้อไก่ | เนื้อปลา | เนื้อหมู |

10. แม่สีมีทั้งหมด 3 สี คือสีแดง สีเหลือง และอีกหนึ่งสีคือสีอะไร

| ก<br>(1) | ข<br>(2) | ค<br>(3) |
|---|---|---|
| สีเขียว | สีน้ำเงิน | สีชมพู |

11. วันที่ 13 เมษายน คือวันอะไร ที่เรามักเล่นน้ำและรดน้ำดำหัวผู้ใหญ่

| ก<br>(1) | ข<br>(2) | ค<br>(3) |
|---|---|---|
| วันปีใหม่ | วันลอยกระทง | วันสงกรานต์ |

12. น้องอายุ 3 ขวบสามารถขับขี่รถคันใดได้ด้วยตนเองอย่างปลอดภัย

| ก<br>(1) | ข<br>(2) | ค<br>(3) |
|---|---|---|
|  | |  |

13. โต้งเป็นลูกคนกลางของครอบครัว ข้อใดกล่าวถูกต้องที่สุด

| ก<br>(1) | ข<br>(2) | ค<br>(3) |
|---|---|---|
| โต้งมีพี่และมีน้อง | โต้งมีพี่ชาย 1 คน | โต้งมีน้องสาว 1 คน |

14. สัตว์ใดมองเห็นในเวลากลางคืนได้ดีกว่าสัตว์ชนิดอื่น ๆ

| ก<br>(1) | ข<br>(2) | ค<br>(3) |
|---|---|---|
|  | |  |

15. การกระทำในข้อใดที่แสดงถึงการมีน้ำใจและไม่ทำร้ายเพื่อน

| ก<br>(1) | ข<br>(2) | ค<br>(3) |
|---|---|---|
| ผลักเพื่อนล้ม | ชวนเพื่อนเล่นด้วยกัน | แย่งของเล่นเพื่อน |

16. ตอนเช้าวาดรูปได้ 6 รูป ตอนบ่ายวาดเพิ่มอีก 7 รูป รวมวาดรูปได้ทั้งหมดกี่รูป

| ก<br>(1) | ข<br>(2) | ค<br>(3) |
|---|---|---|
| 12 รูป | 13 รูป | 14 รูป |

17. พีทมีเงิน 15 บาท ใช้ซื้อขนมไป 6 บาท พีทยังเหลือเงินกี่บาท

| ก<br>(1) | ข<br>(2) | ค<br>(3) |
|---|---|---|
| 9 บาท | 10 บาท | 11 บาท |

18. ในตู้ปลามีปลาและกุ้งตามภาพ ต่อมาปลากินกุ้งไป 4 ตัว ตอนนี้ในตู้ปลายังมีสัตว์อยู่ทั้งหมดกี่ตัว



| ก<br>(1) | ข<br>(2) | ค<br>(3) |
|---|---|---|
| 7 ตัว | 8 ตัว | 9 ตัว |

19. จงหาจำนวนที่หายไปในลำดับ 18, 15, 12, 9, .....

| ก<br>(1) | ข<br>(2) | ค<br>(3) |
|---|---|---|
| 7 | 6 | 5 |





ที่สนามเด็กเล่นมีม้านั่งอยู่ 3 ตัว แต่มีเด็ก 8 คน หากม้านั่ง 1 ตัวนั่งได้ 1 คน ให้ตอบคำถามข้อที่ 20-21

20. เด็กที่ได้นั่งม้านั่งมีทั้งหมดกี่คน

| ก<br>(1) | ข<br>(2) | ค<br>(3) |
|---|---|---|
| 3 คน | 4 คน | 5 คน |

21. ถ้าเด็กทุกคนต้องการที่นั่งต้องหาม้านั่งเพิ่มอีกกี่ตัว

| ก<br>(1) | ข<br>(2) | ค<br>(3) |
|---|---|---|
| 3 ตัว | 4 ตัว | 5 ตัว |

คำชี้แจง: อ่านข้อความแล้วตอบคำถาม ข้อที่ 22-24
"กระเป๋าของฟ้าใหญ่กว่ากระเป๋าของเมฆ แต่เล็กกว่ากระเป๋าของดาว"

22. กระเป๋าของใครใหญ่ที่สุด

| ก<br>(1) | ข<br>(2) | ค<br>(3) |
|---|---|---|
| ดาว | เมฆ | ฟ้า |

23. เรียงกระเป๋าจากใหญ่ไปหาเล็ก จะได้ตามข้อใด

| ก<br>(1) | ข<br>(2) | ค<br>(3) |
|---|---|---|
| เมฆ → ฟ้า → ดาว | ฟ้า → เมฆ → ดาว | ดาว → ฟ้า → เมฆ |



24. ถ้าต้องการให้น้ำหนักทั้งสองข้างของตาชั่งเท่ากัน ควรทำอย่างไร

| ก<br>(1) | ข<br>(2) | ค<br>(3) |
|---|---|---|
| เพิ่มชมพู่ | ลดแอปเปิ้ล | เพิ่มแอปเปิ้ล |

25. เต่าคลานตามสุนัข สุนัขวิ่งตามแมว สัตว์ตัวใดที่เดินนำหน้าอยู่ตัวแรก

| ก<br>(1) | ข<br>(2) | ค<br>(3) |
|---|---|---|
| เต่า | สุนัข | แมว |

26. กระต่ายกระโดดตามม้า ม้าวิ่งตามลิง สัตว์ตัวใดอยู่ท้ายสุด

| ก<br>(1) | ข<br>(2) | ค<br>(3) |
|---|---|---|
| ลิง | กระต่าย | ม้า |

27. จากความสัมพันธ์ของภาพ ข้อใดคือภาพที่หายไป

| ก<br>(1) | ข<br>(2) | ค<br>(3) |
|---|---|---|
| | | |

28. ข้อใดแตกต่างจากข้ออื่น

| ก<br>(1) | ข<br>(2) | ค<br>(3) |
|---|---|---|
|  | 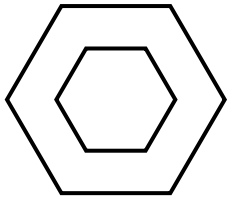 |  |

29. จงเลือกภาพที่สัมพันธ์กับรูปในตาราง




| ก<br>(1) | ข<br>(2) | ค<br>(3) |
|---|---|---|
|  | |  |

30. ภาพใดเกิดหลังสุด

| ก<br>(1) | ข<br>(2) | ค<br>(3) |
|---|---|---|
| |  | 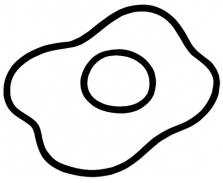 |

# เฉลยชุดตัวอย่าง (เฉลยวิชาภาษาไทย)

**1. ข. ผักกาด กะหล่ำปลี และมะเขือเทศ**

<u>เหตุผล:</u> จากเนื้อเรื่องระบุว่า "คุณปู่ได้ปลูกพืชผักสวนครัวนานาชนิดไว้กินเอง ไม่ว่าจะเป็นผักกาด กะหล่ำปลี และมะเขือเทศ"

**2. ค. ทุกวันเช้าและเย็น**

<u>เหตุผล:</u> จากเนื้อเรื่องระบุว่า "คุณปู่ชอบมาดูแลสวนทุกวันเช้าและเย็น"

**3. ข. ปลาหางนกยูงและกระรอก**

<u>เหตุผล:</u> จากเนื้อเรื่องระบุว่า "มีบ่อน้ำที่มีปลาหางนกยูงว่ายไปมา" และ "มักจะเห็นกระรอกตัวน้อยวิ่งเล่นไปมาบนต้นไม้ใหญ่"

**4. ข. รู้สึกเอ็นดู ไม่ได้ไล่ออกไป**

<u>เหตุผล:</u> จากเนื้อเรื่องระบุว่า "บางครั้งมันก็ลงมาแทะผักที่ปลูกไว้บ้าง คุณปู่ก็ได้แต่มองด้วยความเอ็นดู ไม่เคยไล่เลย"

**5. ข. ซื้อปลาหางนกยูงมาเพิ่ม**

<u>เหตุผล:</u> การจะเพิ่มจำนวนปลาในบ่อที่เร็วที่สุดและตรงที่สุดคือการนำปลามาใส่เพิ่ม การตักปลาไปให้เพื่อนบ้านจะทำให้ปลาน้อยลง และการให้อาหารเยอะๆ อาจทำให้ปลาโตขึ้น แต่ไม่ได้เพิ่มจำนวนปลาโดยตรง

**6. เฉลย: ข. เก้าอี้**

<u>เหตุผล:</u> "เก้าอี้" เป็นคำที่สะกดถูกต้อง หมายถึง ที่นั่งมีพนักพิงมี 4 ขา

**7. เฉลย: ข. ส้อม**

<u>เหตุผล:</u> คำว่า ส้ม และ ส้อม มีพยัญชนะต้นคือ ส เช่นเดียวกัน ดังนั้น คำที่มีพยัญชนะต้นเหมือนกับคำว่า "ส้ม" คือ ส้อม

**8. เฉลย: แมลงวัน**

<u>เหตุผล:</u> แมลงวันเป็นพาหะนำเชื้อโรคต่างๆ โดยเฉพาะอย่างยิ่งเชื้อแบคทีเรียที่ก่อให้เกิดโรคในระบบทางเดินอาหาร เช่น ท้องร่วง เนื่องจากแมลงวันชอบตอมสิ่งปฏิกูลและอาหารไปพร้อมๆ กัน

**9. เฉลย: ข. เนื้อปลา**

<u>เหตุผล:</u> เนื้อปลามีเส้นใยกล้ามเนื้อที่สั้นและนุ่มกว่าเนื้อสัตว์อื่นๆ ทำให้ร่างกายย่อยและดูดซึมสารอาหารได้ง่ายและรวดเร็ว

**10. เฉลย: ข. สีน้ำเงิน**

<u>เหตุผล:</u> แม่สี หรือสีหลัก มีทั้งหมด 3 สี ได้แก่ สีแดง สีเหลือง และสีน้ำเงิน เป็นสีที่ไม่สามารถสร้างได้จากการผสมสีอื่น ๆ แต่สามารถใช้ในการผสมเพื่อให้เกิดสีอื่น ๆ ได้

**11. เฉลย: ค. วันสงกรานต์**

<u>เหตุผล:</u> วันที่ 13 เมษายนของทุกปีเป็นวันสงกรานต์ ซึ่งเป็นวันปีใหม่ไทย ประชาชนนิยมเล่นสาดน้ำ และรดน้ำดำหัวผู้ใหญ่เพื่อแสดงความเคารพ

**12. เฉลย: ข. รถจักรยานสามล้อ**

<u>เหตุผล:</u> วัย 3 ขวบยังควบคุมการทรงตัวได้ไม่ดี รถจักรยานสามล้อมีความมั่นคงไม่ล้มง่าย เหมาะสำหรับฝึกการขับขี่และปลอดภัยกว่าตัวเลือกอื่น

**13. เฉลย: ก. โต้งมีพี่และน้อง**

<u>เหตุผล:</u> การเป็นลูกคนกลางหมายความว่ามีพี่ที่เกิดก่อนและมีน้องที่เกิดทีหลัง

**14. เฉลย: ค. นกฮูก**

<u>เหตุผล:</u> นกฮูกเป็นสัตว์ที่หากินเวลากลางคืน ดวงตาของมันใหญ่และไวต่อแสงมาก ทำให้สามารถมองเห็นได้ชัดเจนในที่มืดดีกว่าสัตว์ชนิดอื่น เช่น แมว หรือ สุนัข

**15. เฉลย: ข. ชวนเพื่อนเล่นด้วยกัน**

<u>เหตุผล:</u> การชวนเพื่อนเล่นด้วยกันแสดงถึงการมีน้ำใจ แบ่งปัน และสร้างมิตรภาพที่ดี ไม่ใช่การรังแกหรือทำร้ายผู้อื่น

(เฉลยวิชาคณิตศาสตร์)

**16. เฉลย: ข. 13 รูป**

<u>เหตุผล</u>: ตอนเช้าวาดรูปได้ 6 รูป ตอนบ่ายวาดเพิ่มอีก 7 รูป รวมวาดรูปได้ทั้งหมด = 6 + 7 = 13 รูป

**17. เฉลย: ก. 9 บาท**

<u>เหตุผล:</u> พีทมีเงิน 15 บาท ใช้ไป 6 บาท เหลือเงิน = 15 - 6 = 9 บาท

**18. เฉลย: ข. 8 ตัว**

<u>เหตุผล:</u> ปลา = 3 ตัว กุ้ง = 9 ตัว ปลากินกุ้งไป 4 ตัว กุ้งเหลือ 9 - 4 = 5 ตัว สัตว์ทั้งหมดในตู้ = ปลา 3 ตัว + กุ้งที่เหลือ 5 ตัว = 8 ตัว

**19. เฉลย: ข. 6**

<u>เหตุผล:</u> ลำดับของตัวเลขนี้เป็นการลดลงทีละ 3 (18 - 3 = 15, 15 - 3 = 12, 12 - 3 = 9) ดังนั้น 9 - 3 = 6

**20. เฉลย: ค. 3 คน**



<u>เหตุผล:</u> มีเด็ก 8 คน โจทย์ระบุว่า “ มีม้านั่ง 3 ตัว และ 1 ตัวนั่งได้ 1 คน ” ดังนั้น เด็กที่ได้นั่ง = 3 คน

**21. เฉลย: ข. 5 ตัว**

<u>เหตุผล:</u> มีเด็ก 8 คน มีม้านั่ง 3 ตัว ต้องการม้านั่งเพิ่ม = 8 - 3 = 5 ตัว ต้องการให้เด็กทุกคนได้นั่งคนละ 1 ตัว ดังนั้นต้องหาม้านั่งเพิ่มอีก 5 ตัว

(เฉลยวิชาเชาวน์ปัญญา)

**22. เฉลย ก. ดาว**

<u>เหตุผล:</u> กระเป๋าของฟ้า < ดาว ดังนั้น ดาว มีกระเป๋าใหญ่ที่สุด

**23. เฉลย: ค. ดาว → ฟ้า → เมฆ**

<u>เหตุผล:</u> เรียงตามขนาดจากใหญ่ไปเล็กตามเงื่อนไขในโจทย์
ดาว > ฟ้า > เมฆ

**24. เฉลย: ค. เพิ่มแอปเปิ้ล**

<u>เหตุผล:</u> จากภาพ ตาชั่งด้านขวาที่มีชมพู่ 3 ผล หนักกว่าด้านซ้ายที่มีแอปเปิ้ล 2 ผล หากต้องการให้ตาชั่งสมดุล ควรเพิ่มน้ำหนักให้กับฝั่งที่เบากว่า ซึ่งคือฝั่งที่มีแอปเปิ้ล เพื่อให้น้ำหนักทั้งสองข้างเท่ากัน



25. เฉลย: ค. แมว

<u>เหตุผล:</u>

- เต่าตามสุนัข → แปลว่าสุนัขอยู่หน้าเต่า
- สุนัขตามแมว → แปลว่าแมวอยู่หน้าอีก
- ดังนั้นแมวต้องอยู่ตัวแรกสุด

**26. เฉลย: ข. กระต่าย**

<u>เหตุผล:</u>

- กระต่ายตามม้า → แปลว่าม้าอยู่หน้า
- ม้าตามลิง → แปลว่าลิงอยู่หน้าม้า

เรียงลำดับคือ ลิง → ม้า → กระต่าย ดังนั้นกระต่ายอยู่ตัวสุดท้าย

**27. เฉลย: ข. กางเกง**

<u>เหตุผล:</u> เป็นภาพแสดงความสัมพันธ์ระหว่างเพศกับเสื้อผ้าที่สวมใส่
ภาพคู่แรก: "เด็กผู้หญิง" คู่กับ "ชุดกระโปรง"
ภาพคู่ที่สอง: "เด็กผู้ชาย" คู่กับ "กางเกง"

**28. ก. สี่เหลี่ยมอยู่ในวงกลม** 

<u>เหตุผล:</u>

- ข. หกเหลี่ยมอยู่ในหกเหลี่ยม: รูปทรงข้างนอกและข้างในเป็นรูปทรงเดียวกัน (หกเหลี่ยม)
- ค. สี่เหลี่ยมอยู่ในสี่เหลี่ยม: รูปทรงข้างนอกและข้างในเป็นรูปทรงเดียวกัน (สี่เหลี่ยม)
- ก. สี่เหลี่ยมอยู่ในวงกลม: รูปทรงข้างนอกและข้างในเป็นรูปทรงที่แตกต่างกัน (สี่เหลี่ยมและวงกลม)

**29. ข.** 

<u>เหตุผล:</u> เป็นภาพที่สัมพันธ์กับรูปในตาราง ที่ไม่ซ้ำกันในทั้งแนวตั้งและแนวนอน

**30. ค.** 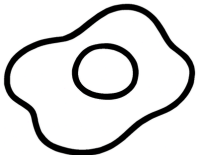

<u>เหตุผล:</u>

- ข. ภาพไข่: เป็นวัตถุดิบตั้งต้นที่ยังไม่ได้ผ่านกระบวนการใดๆ
- ก. ภาพตอกไข่: เป็นขั้นตอนถัดมาจากไข่ปกติ คือการนำไข่ไปตอกเพื่อเตรียมทำอาหาร
- ค. ภาพไข่ดาว: เป็นผลลัพธ์สุดท้ายที่เกิดจากการนำไข่ที่ตอกแล้วไปทอดในกระทะ

ดังนั้น ลำดับเหตุการณ์ที่ถูกต้องคือ ไข่ -> ตอกไข่ -> ไข่ดาว ทำให้ "ภาพไข่ดาว" เป็นสิ่งที่เกิดขึ้นหลังสุด